Activités ritualisées: _ écris le nombre suivant.....

563<564 685<686 777<778 879<880 291<292 389<390

961< 962 188<189 470<471 273<274 994<995 681< 682

_ Combien de centaines y a-t-il dans..... ?

90 + 10 + 60 + 40 + 70 = 2 centaines

150 + 150 + 130 + 170 = 6 centaines

Calcul mental: _Fiche Identification produits : fiche 1

Fiche (1)

2 x 3 ou 3 x 2= 6	4 x 3 ou 3 x 4= 12	2 x 8 ou 8 x 2= 16

Résolutions de problèmes: _2 énigmes à résoudre

La boite à énigmes ★ 29	La boite à énigmes ★ 30
 **A** – Combien y a-t-il d'œufs ? **B** – Il faut 6 œufs pour remplir une boîte, combien utiliseras-tu de boîtes pour ranger tous ces œufs ?	 **A** – Combien y a-t-il d'ailes de coccinelles ? **B** – Combien y a-t-il de points au total sur le dos des coccinelles ?
a) (4 x 4) – 1 = 16-1 = 15. Il y a 15 œufs. b) 6 x 2 = 12 et 6 x 3 = 18. Il faudra donc 2 boîtes.	a) 4 x 2 = 8. Il y a 8 ailes. b) 4 x 7 = 28. Il y a 28 points au total.

Apprentissage :

_ Demander de réfléchir sur la façon de calculer 15 × 3. = (10 +5) x 3 = 30+15 = 45

_ Dessiner le quadrillage correspondant sur son cahier et colorier pour mettre en évidence :

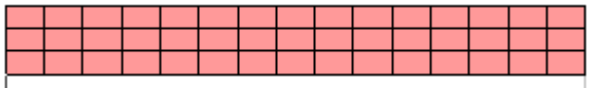

_ Dans leur cahier, ils cherchent en faisant la représentation avec les carreaux :

17 × 4 ; 26 × 3 ; 27 × 4

17 x 4 = (10+7) x 4 = 40 + 28 = 68	
26 x 3 = (20+6) x 3 = 60+18= 78	
27 x 4 = (20+7) x 4 = 80 +28 = 108