Activités ritualisées: _ écris ces nombres en lettres et donne un encadrement.

606: six-cent-six 605<606<607

713: sept-cent-treize 712<713<714

775: sept-cent-soixante-quinze 774<775<776

_Trouve comment la suite est construite et écris les nombres suivants.

223-231-239- 248- 256- 264-272-280-288-296-304-312

Calcul mental :Jeu de la cible.

_Donner un score. Les enfants doivent le trouver avec le minimum de marques. Le parent annonce un score et un nombre de marques. Les enfants doivent proposer la ou les combinaisons réponses. **LES VALEURS DE LA CIBLE:** *ROUGE = 10/ VERT = 5 / BLEU = 1*	

exemple: Le parent annonce le score 27 en 5 marques. L'élève propose: 2 flèches dans le rouge, une flèche dans le vert, deux flèches dans le bleu.

3 consignes pour le parent :

1) annoncer le score 32 en 5 marques : rouge x 3, bleu x 2
2) annoncer le score 17 en 4 marques : rouge x 1, vert x 1, bleu x 2
3) annoncer le score 48 en 8 marques : rouge x 4, vert x 1, bleu x 3

Résolutions de problèmes:

_ Des coureurs vont faire 4 tours de la ville. Chaque tour fait 3 km. **Combien de km vont-ils courir au total ?** 4 x 3 = 12. Ils vont courir 12 kilomètres.

_2 énigmes à résoudre

La boite à énigmes ★ 25	La boite à énigmes ★ 26
A – Peut-on faire 19 avec 3 dés ? **B** – Comment faire 14 avec 3 dés si l'un d'eux marque 3 ? 	**A** – Combien y a-t-il de boules au billard américain ? **B** – Si tu rentres les boules de 1 à 6 , combien marques-tu de points au total ?
a) Non car le score maximum est 6 x 3 = 18. b) 3 + 6 + 5.	a) Il y a 16 boules. b)1+2+3+4+5+6= 21. Tu marques 21 points.

Apprentissage : géométrie (documents à télécharger sur le site)

_ Présentation de la Fiche Carte de France et de la Fiche Programmes de construction. Lecture et réalisation du programme de construction 1. Puis faire le programme de construction 2.

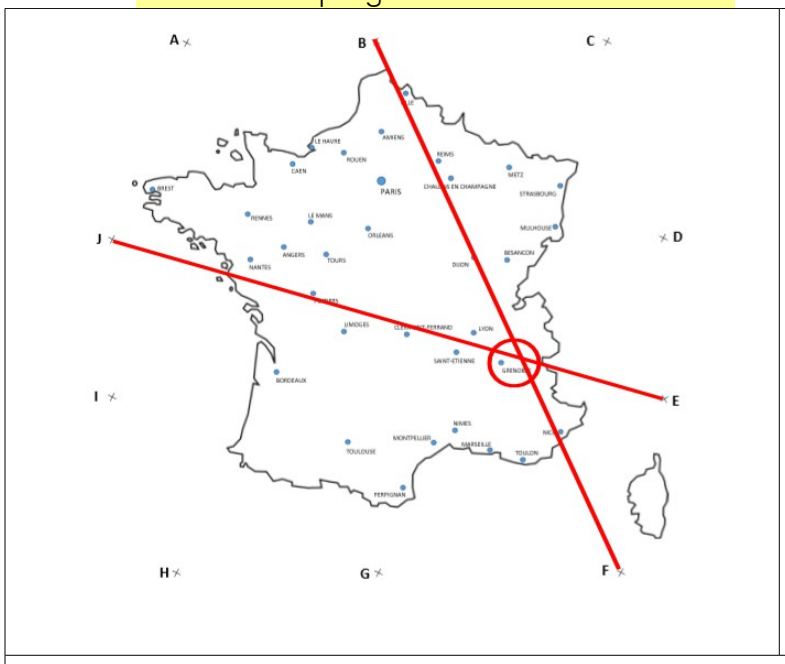

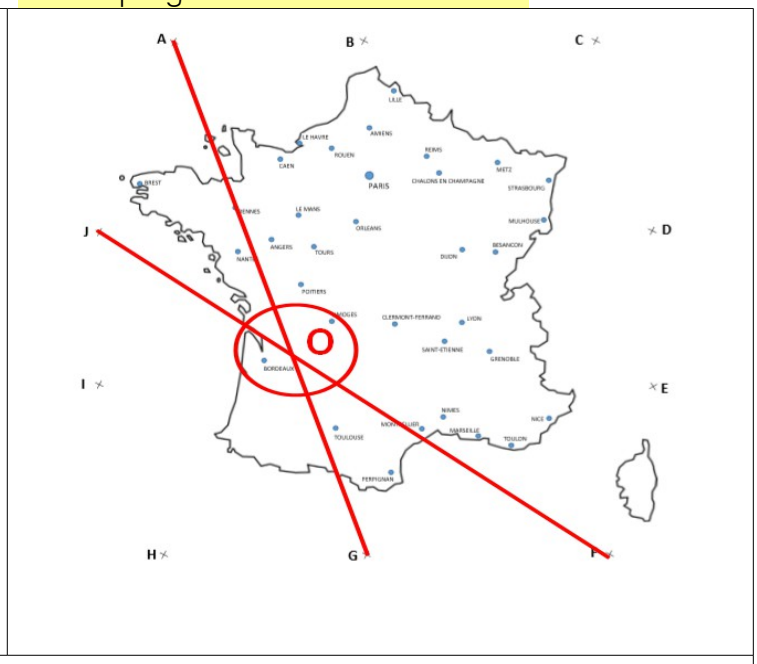

Programme de construction 1 :

1. Trace le segment [JE]

2. Trace le segment [BF]

3. Entoure la ville la plus proche de l'endroit où se croisent les deux segments.

Quelle est cette ville ? ...Grenoble

Programme de construction 2 :

1. Trace le segment [JF]

2. Trace le segment [AG]

3. Les deux segments se coupent au point 0. Trace le cercle de centre 0 et de rayon 2 cm.

4. Il y a deux villes dans le cercle.

Quelles sont ces villes ? .....Bordeaux Limoges